1 次のＡ～Ｄの文を読んで，後の問いに答えなさい。

Ａ　昨年７月には，この都道府県にある（　あ　）が世界遺産に登録されました。このことからも，今後ますますこの都道府県をおとずれる外国人観光客が増えることが考えられます。

Ｂ　この都道府県では，暖かい気候を利用して，①作物の育成を早めて，しゅんの時期とずらした時期に出荷する栽培方法を行っています。また，この都道府県には太平洋戦争の後も（　い　）の軍用地が多く残されており，問題になっています。

Ｃ　この②都道府県では，すずしい気候を利用して嬬恋村（つまごいむら）において（　う　）の栽培がさかんです。また，この都道府県には，近年③工場の進出がさかんであり，④新しい工業地域として注目されています。

Ｄ　この都道府県には，楽器製造がさかんな（　え　）市があります。工業だけでなく，⑤漁業もさかんで，かつおの水あげ量が日本一の（　お　）港があります（２０１８年現在）。

（１）　Ａ～Ｄの各文が説明している都道府県名を漢字で答え，さらにその形をア～クの中からそれぞれ１つずつ選び，記号で答えなさい。

ア

イ

ウ

エ

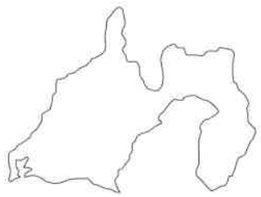
オ

カ

キ

ク

（２）　文中（　あ　）にあてはまるものとして正しいものを，次のア～エの中から１つ選び，記号で答えなさい。
ア　百舌鳥・古市古墳群　　イ　石見銀山
ウ　平泉　　エ　富士山

（３）　文中（　い　）にあてはまる国名を答えなさい。

（４）　文中（　う　）にあてはまるものとして正しいものを，次のア～エの中から１つ選び，記号で答えなさい。
ア　なすび　　イ　キャベツ　　ウ　きゅうり　　エ　じゃがいも

（５）　文中（　え　）（　お　）にあてはまる都市名の組み合わせとして正しいものを，次のア～エの中から１つ選び，記号で答えなさい。
ア　え：浜松　お：焼津　　イ　え：豊田　お：境
ウ　え：四日市　お：釧路　　エ　え：津　お：八戸

（６）　下線部①について，この栽培方法を何といいますか。漢字で答えなさい。

（７）　下線部②の都道府県庁所在地名を漢字で答えなさい。
また，この都道府県庁所在地の雨温図として正しいものを，次のア～ウの中から１つ選び，記号で答えなさい。

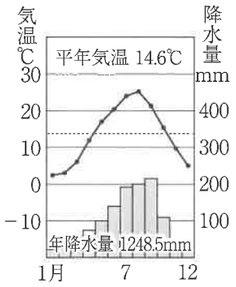

ア

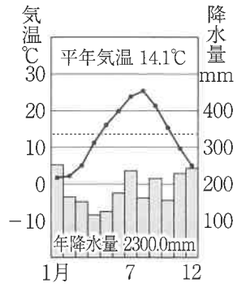

イ

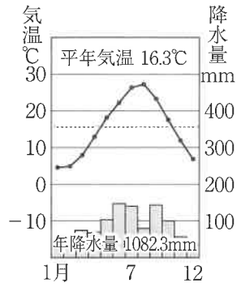

ウ

（気象庁データより）

（８）　下線部③について，工場の地図記号を答えなさい。

（９）　下線部④について，この工業地域を何といいますか。漢字で答えなさい。

（10）　下線部④について正しくのべたものを，次のア～エの中から１つ選び，記号で答えなさい。
ア　石油や石炭を利用した重化学工業がさかんです。
イ　大規模な製鉄所が立ちならんでいます。
ウ　昔ながらのせんい工業がさかんです。
エ　高速道路を利用して，機械工業が発達しています。

（11）　下線部⑤について，日本の漁業の状況を説明した文として正しいものを，次のア～エの中から１つ選び，記号で答えなさい。
ア　１９９０年代に各国が２００海里経済水域を設定したことから，日本の遠洋漁業は衰退しました。
イ　海と陸地の環境をともに守ることが重視され，魚つき保安林を守る活動がおこなわれています。
ウ　とる漁業だけでなく育てる漁業にも注目が集まっており，広島ではかきの栽培漁業がさかんです。
エ　近年，若者の間で漁業の人気が高まり，水産業で働く人の数は年々増えています。

2 次の１～15の文あるいは資料を見て，後の問いに答えなさい。

1 （ あ ）は仏教の力で社会の不安をしずめて国を治めようと願い，国ごとに国分寺を置くことを命じました。

2 （ い ）は天皇中心の国づくりのために，仏教のほかにも進んだ制度や文化，学問が必要だと考え，中国へ使者を送りました。

3 中国にならって藤原京という日本で最初の本格的な都が飛鳥につくられました。

（1）（ あ ）（ い ）にあてはまる人物名をそれぞれ漢字で答えなさい。

（2） 次の資料は（ い ）の人物が定めたものです。この資料の名称を漢字で答えなさい。

第１条　人の和を第一にしなければなりません。
第２条　仏教をあつく信仰しなさい。
第３条　天皇の命令は必ず守りなさい。
第12条　地方の役人が勝手にみつぎ物を受け取ってはいけません。

（3） 下線部の「中国」の当時の王朝名として正しいものを次のア～エの中から１つ選び，記号で答えなさい。

ア　隋　　イ　唐　　ウ　明　　エ　清

（4） １～３を時代の古い順に正しくならびかえたとき，「大化の改新」はどのできごととどのできごとの間に入りますか。次のア～カの中から１つ選び，記号で答えなさい。

ア　１と２の間　　イ　１と３の間　　ウ　２と１の間
エ　２と３の間　　オ　３と１の間　　カ　３と２の間

4 （ う ）は，検地を行い，収入を確かなものにしました。その一方で，百姓たちから刀や鉄砲を取り上げて，武器をとって反抗できないようにしました。

5 （ え ）は当時強い力を持っていた仏教勢力に対抗するために，キリスト教を保護し，ヨーロッパの国々との貿易によって堺などの港町は大いに栄えました。

6 ３代将軍（ お ）の時代には，幕府の力が最も強まり，中国と貿易を行うとともに文化や芸術を保護しました。

（5）（ う ）～（ お ）にあてはまる人物名をそれぞれ漢字で答えなさい。

（6） 下線部に関係の深いものとして正しいものを次のア～エの中から１つ選び，記号で答えなさい。

ア　すみ絵　　イ　能　　ウ　茶の湯　　エ　生け花

（7） ４～６を時代の古い順に正しくならびかえたものを次のア～カの中から１つ選び，記号で答えなさい。

ア　4→5→6　　イ　4→6→5　　ウ　5→4→6
エ　5→6→4　　オ　6→4→5　　カ　6→5→4

7 ３代将軍となった（ か ）は，大名が１年おきに自分の領地と江戸の間を行き来する制度を定めました。また，祖父をまつる（ き ）を大規模に建て直しました。

8 ８代将軍（ く ）が建てた銀閣の１階部分は障子（しょうじ）に囲まれ，現在の和室につながっています。

9 執権の北条時宗のときに元の大軍が九州にせめてきて，全国から集められた武士たちは必死に戦いました。

（8）（ か ）（ く ）にあてはまる人物名をそれぞれ漢字で答えなさい。

（9） 下線部の制度を漢字４文字で答えなさい。

(10) （ き ）は世界遺産に登録されています。（ き ）にあてはまるものとして正しいものを次のア～エの中から１つ選び，記号で答えなさい。

ア　日光東照宮　　イ　春日大社　　ウ　厳島神社　　エ　姫路城

(11) 次のできごとは７～９のどの時代におこったことですか。数字で答えなさい。

九州の島原や天草で，キリスト教の信者を中心に３万数千人もの人々が重い年貢の取り立てに反対して一揆を起こしました。

10 １５代将軍（ け ）は，政権を朝廷に返し，２６０年余り続いた幕府は終わりを告げました。

11 幕府はアメリカとの間に（ こ ）を結んで国交を開き，鎖国の状態は終わりました。

12 幕府の元役人であった勝海舟は薩摩藩（さつまはん）の（ さ ）との話し合いで，戦わずに江戸城を明け渡すことを決めました。

(12) （ け ）～（ さ ）にあてはまる人物名，あるいは語句をそれぞれ漢字で答えなさい。

(13) 明治政府が国の収入を安定させるために行った，土地に対する政策として正しいものを次のア～エの中から１つ選び，記号で答えなさい。

ア　徴兵令　　イ　殖産興業　　ウ　富国強兵　　エ　地租改正

(14) 10～12を時代の古い順に正しくならびかえたものを次のア～カの中から１つ選び，記号で答えなさい。

ア　10→11→12　　イ　10→12→11　　ウ　11→10→12
エ　11→12→10　　オ　12→10→11　　カ　12→11→10

13　日本は（　し　）への加盟が認められ，再び国際社会に復帰しました。

14　日本はハワイのアメリカ軍港やマレー半島のイギリス軍を攻撃し，（　す　）が始まりました。

15　アジアで初となる東京オリンピックが開かれ，日本の復興ぶりは世界をおどろかせました。

(15)　（　し　）（　す　）にあてはまる語句をそれぞれ漢字で答えなさい。ただし，（　し　）は漢字４文字で答えなさい。

(16)　１９４５年８月６日に広島，９日に長崎にアメリカ軍が投下したものは何ですか，漢字４文字で答えなさい。

(17)　下線部のできごとと，もっとも近い時期におこったことがらとして正しいものを次のア～エの中から１つ選び，記号で答えなさい。

ア　長くアメリカに占領されていた沖縄が，日本に返還されました。
イ　阪神・淡路大震災が発生し，多くの犠牲者が出ました。
ウ　国民総生産額がアメリカに次いで世界２位になりました。
エ　中国と日中平和友好条約を結び，貿易などを通して関係が深まりました。

(18)　13～15を時代の古い順に正しくならびかえたとき，次のできごとはどのできごととどのできごとの間に入りますか。次のア～カの中から１つ選び，記号で答えなさい。

「日本は４８か国と平和条約を結び，翌年に主権を回復しました。」

ア　13と14の間　　イ　13と15の間　　ウ　14と13の間
エ　14と15の間　　オ　15と13の間　　カ　15と14の間

3　２０１９年１０月１日から，消費税率が１０％に引き上げられました。そこで，６年Ａ組では税について，班に分かれて調べ学習をすることになりました。各班の発表を聞いて，後の問いに答えなさい。

１班
私たちは消費税について調べました。消費税は，１９８９年にこれからの高齢化社会に向けての財源確保と税制度の全体のバランスをとるために導入されました。消費税率は，１９８９年に（　あ　）％で始まり，１９９７年に（　い　）％，２０１４年に（　う　）％へと引き上げられ，２０１９年１０月にいよいよ１０％になりました。最初は，今後の高齢化社会に向けての財源確保や税制度のバランスを取るためのものでしたが，今では，①国の重要な財源になっています。今後進む少子高齢社会に向けても重要な税だということが分かりました。

（1）　下線部①について，グラフ１は，国の歳入を種類ごとに書き出したものです。このうち，消費税にあたるものはどれですか。グラフ１中のア～ウの中から１つ選び，記号で答えなさい。

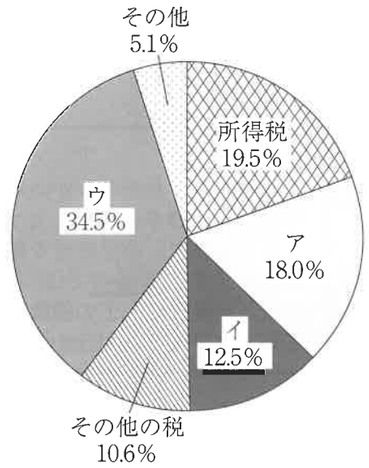

〔グラフ１〕国の歳入
（2018年　財務省資料）

（2）　１班の発表の中にある，（　あ　）～（　う　）に当てはまる税率の組み合わせとして正しいものはどれですか。次の表１のア～エの中から１つ選び，記号で答えなさい。

	あ	い	う
ア	3	4	7
イ	2	4	8
ウ	3	5	8
エ	2	5	7

〔表１〕消費税の税率

２班
私たちは，自分たちの生活にどのように税が使われているのかを調べました。私たちが納めた税金は，道路の整備などの公共事業や消防や救急など私たちの安全で健康な暮らしを守るために使われています。この他にも，私たちが学校で使う教科書や施設，お年寄りや障がいのある人への支援など，②誰もが暮らしやすい環境や設備をつくるために使われています。また，③災害時の支援など緊急時の対策にも使われています。私たちの納める税金は，国民のより良い生活を支えるために使われているということが分かりました。

（３） 下線部②について，年齢，障がいの有無，性別，国籍などに関わらず，誰もが使いやすい製品や生活環境をはじめからつくることを何といいますか。カタカナ１０文字で答えなさい。

（４） 下線部③について，被災地の復旧支援のために，東日本大震災の発生後の２０１２年に新しく設置された省庁とは何ですか。漢字で答えなさい。

３班
私たちは，税金のつかいみちが，どのように決められているのかを調べてみました。税金のつかいみちは，法律や条例にもとづいて市区町村や都道府県の議会や国会で④議員の人たちによって決められています。市区町村や都道府県議会では，より地域で必要とされていることに対して予算が組まれています。⑤国会では，国民全体の生活に関わることに対して予算が組まれるほか，各地域で行われる事業に対しての補助などが行われています。地域の取り組みには，国の政策や支援がかかわっているということが分かりました。

（５） 下線部④について，被選挙権について説明した次の文のうち誤っているものはどれですか。次のア～エの中から１つ選び，記号で答えなさい。
ア　１８才以上の国民には，市区町村議員への立候補が認められる。
イ　２５才以上の国民には，衆議院議員への立候補が認められる。
ウ　３０才以上の国民には，参議院議員への立候補が認められる。
エ　３０才以上の国民には，都道府県知事への立候補が認められる。

（６） 下線部⑤について，国会の仕事として正しいものはどれですか。次のア～エの中から１つ選び，記号で答えなさい。
ア　外国と条約を結ぶ　　イ　法律を定める
ウ　争いごとを解決する　　エ　法律案や予算案をつくる

（７） 国の支出のうち，最も多くの費用が使われているのはどの分野ですか。正しいものを次のア～エの中から１つ選び，記号で答えなさい。また，それはどの様な内容ですか。正しいものを次のオ～クの中から１つ選び，記号で答えなさい。
〔分野〕
ア　国防　　イ　社会保障　　ウ　公共事業　　エ　教育・文化

〔内容〕
オ　少子高齢社会に向けた対策など
カ　学校の建設や設備の維持，文化財の保護など
キ　道路工事や下水道の管理など
ク　外部からせめてくる敵から国家を守る

受験番号		氏　名	

令和２年度〔社　会〕前期入学試験問題　解答用紙

1

(1)	A 都道府県名	記号	B 都道府県名	記号	C 都道府県名	記号	D 都道府県名	記号
(2)		(3)		(4)		(5)		
(6)		(7)	都道府県庁所在地　市	記号		(8)		
(9)		(10)		(11)				

2

(1)	あ	い	(2)		(3)		(4)	
(5)	う	え	お		(6)		(7)	
(8)	か	く	(9)		(10)		(11)	
(12)	け	こ	さ		(13)		(14)	
(15)	し	す	(16)		(17)		(18)	

3

(1)		(2)		(3)									
(4)				(5)		(6)		(7)	分野		内容		